Sachrechnen 11



Rudi hat in seinem Sparschwein 1000 Euro. Er möchte sich einen Computer um 899 € kaufen. Wie viel Geld bleibt ihm noch?

Tom bekommt ein neues Kinderzimmer. Das Bett kostet 239 €, der Schreibtisch kostet 198€ und der Kasten 234€. Wie viel Geld muss seine Mutter bezahlen?

Heute bekommen alle Kinder ihr Taschengeld. Erik bekommt 22 €, Michael bekommt 34 € und der kleine Franz bekommt um 14 € weniger als Michael. Wie Geld muss Vater bezahlen?

Oma schenkt jedem ihrer vier Enkel 25 €. Wie viele Geld haben alle zusammen?

Sachrechnen 12

In der Klasse 4c haben 5 Kinder eine Katze und 8 Kinder einen Hund. 14 Kinder haben weder einen Hund noch eine Katze. Wie viele Kinder sind in der Klasse?

Frau Neuhaus kauft sich ein neues Auto um 8990 Euro. Für ihren alten Wagen bekommt sie 4265 Euro. Wie viel muss sie noch bezahlen?

Eva hat als kleine Geschenke 220 Murmeln in 8 Säckchen gepackt. Wie viele Murmeln sind in jedem Säckchen? Wie viele Murmeln bleiben übrig?

Tim hat zu seinem Geburtstagsfest 3 Mädchen und 4 Buben eingeladen. Für ein Spiel braucht jedes Kind 5 Luftballons. Wie viele Ballons müssen sie aufblasen?

Sachrechnen 13



Ein Stuhl kostet 35 Euro. Familie Müller braucht für ihr Esszimmer 6 Stühle. Wie viel müssen sie bezahlen?

Ein Tisch kostet 65 Euro, ein Stuhl kostet 14 Euro. Für eine Klasse braucht man 5 Tische und 10 Stühle. Wie viel kostet das?

Der neue Computer kostet 798 Euro. 500 Euro bezahlt Oma, 200 Euro bezahlt Papa, Mama zahlt 34 Euro. Wie viel muss ich selber bezahlen?

Vier Kinder wollen sich zusammen ein neues Fußballtor für den Garten kaufen. Es kostet 99 Euro. Jedes Kind hat 24 € gespart. Reicht das Geld?

Sachrechnen 14

Rudi stapelt Säcke auf dem Balkon. Ein Sack ist 32 cm hoch,
Wie hoch wird der Turm wenn er 9 Säcke übereinander stapelt?

Julias Auto ist 55 dm lang. Sie möchte es auf einen Parkplatz stellen, der 540cm lang und 2m 3 dm 6 cm breit ist. Geht sich das aus?

Sara räumt die 8 Bände ihres Lexikons ins Regal. Jeder Band ist 7cm 4mm breit. Wie lang wird die Reihe im Bücherregal?

Herr Bering läuft täglich 3265m. Wie viel läuft er in einer Woche, wenn er am Sonntag eine Pause macht?

Sachrechnen 15

Sissi kauft Vorhänge für ihre neue Wohnung. Für die Küche braucht sie 3m 2 dm, fürs Wohnzimmer 62 dm und fürs Schlafzimmer 751 cm.. Wie viel Stoff braucht sie?

Mama hat 4m 20 cm Stoff gekauft. Sie benötigt 75 cm um für Sabines Puppe ein Kleid zu nähen. Wie viel Stoff braucht sie?

Lisa und Lena kaufen im Stoffgeschäft den gleichen Stoff. Lisa kauft 1 m 55cm und Lena 2m 35 cm. Wie viel Stoff muss die Verkäuferin abschneiden?

Ein 7m 20cm breites Blumenbeet wird in drei gleiche Teile geteilt. Wie lang ist jeder Teil?

Sachrechnen 16



Eine Straße mit 12km und 175m wird geteert. Die Hälfte fehlt noch. Wie viel ist das?

Rudi und Fredi sammeln Steine. Rudi hat 1497 Steine, Fredi hat 1518 Steine. Berechne die Differenz!

Auf der Koralm werden 769 Schafe gehütet. Auf der Ziralm sind es 1078 Schafe. Berechne die Summe.

Bäcker Strock backt an einem Tag 1052 Kipferl. Bäcker Moser backt nur die Hälfte. Wie viele Kipferl backen beide Bäcker zusammen?

Sachrechnen 17



In Bauer Merkels Keller lagern 987 kg Kartoffeln. Er füllt sie in 5kg-Säcke. Wie viele Säcke werden voll? Wie viele Kartoffeln bleiben übrig?

Sabines Schultasche wiegt 6kg 85dag. Peters Schultasche wiegt 705 dag. Wer muss um wieviel mehr tragen?

Ein Metzger verkauft in einer Woche 1kg 45 dag Extrawurst. Ein anderer Metzger verkauft nur 96 dag. Berechne die Differenz!

In Bauer Rübens Keller lagern noch 452 kg Karotten. Er füllt sie immer 6kg in einen Sack. Wie viele Säcke werden voll? Wie viele kg bleiben übrig?

Sachrechnen 18

Herr Öhler fährt mit seinem LKW zur Baustelle. Der LKW hat ein Gewicht von 1800 kg. Mit der Ladung wiegt er 2 t 280 kg. Wie viel wiegt die Ladung?

Frau Merz fährt zum Baumarkt. Ihr Auto hat ein Gewicht von 1485 kg. Sie lädt Zementsäcke mit insgesamt 530 kg ein. Wie schwer ist ihr Auto nun?

Maxi Hund wiegt 7 kg 24 dag. Peters Hund wiegt um 2kg 64 dag weniger. Wie schwer ist Peters Hund?

Eine Kiste ist 153 kg schwer. 7 dieser Kisten werden aufs Auto geladen. Wie schwer ist die Ladung?

Sachrechnen 19



Lukas kann seine beiden Schwestern gleichzeitig tragen. Mia wiegt 12 kg 30 dag und Nina wiegt 15 kg 23 dag. Wie viel wiegen beide zusammen?

Eine Wassermelone wiegt 1kg 72 dag. Wie viel wiegt die halbe Melone?

Ein Lastauto (4t 275 kg Eigengewicht) wird zuerst mit 1 t 360kg und dann mit 1 t 125 kg beladen. Berechne das Gesamtgewicht!

Ein Hund frisst jede Wochje 4kg 90 dag Fleisch. Er bekommt die gleiche Menge Trockenfutter dazu. Wie viel Fleisch frisst er in einer Woche?

Sachrechnen 20

Ein Metzger verkauft von einem 1kg schweren Rindfleisch zuerst 34 dag, dann 25 dag und dann noch einmal 13 dag, Wie viel hat er verkauft? Wie viel bleibt ihm übrig?

Mutti hat im Obstgeschäft um 2,94 Euro eingekauft, in der Bäckerei um 12,6 Euro und beim Metzger um 23,09 Euro. Wie viel Geld hat sie ausgegeben?

Meine Heimatstadt hatte im Jahr 1990 genau 13 245 Einwohner. Heute hat sie 15 123 Einwohner. Um wie viel hat die Bevölkerung zugenommen?

Mia möchte ein neues Fahrrad um 890 Euro kaufen. Papa bezahlt die Hälfte, Oma bezahlt 100 Euro. Wie viel muss Mia selber sparen?